地理の豆テスト

左のような、地球の模型を（①）と言い、地球上の陸地の形や面積、距離や方位などをほぼ正確に表すことができる。

しかし平面で表す世界地図は、全ての条件を同時に正しく表すことができないので、その地図の特徴を知り、目的に合わせて使うことが必要である。下の世界地図は、左から（②）図法、（③）図法、（④）図法という。

②図法は緯線と経線がすべて垂直に交わっているため（⑤）が正しく計れるので、（⑥）図に適している。

③図法は周辺の形がゆがむ欠点はあるが、陸地の（⑦）が正しく表されるため、分布図などに適している。

④図法はまるでレーダーのように見えるが、（⑧）からある地点までの距離と（⑨）が正しいので、（⑩）図に適している。ただし、⑧から以外は正しく表せないので、注意する必要がある。

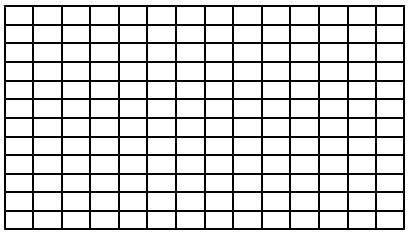



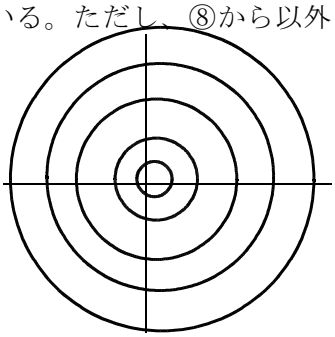

①〔地球儀〕②〔メルカトル図法〕③〔モルワイデ図法〕④〔正距方位図法〕⑤〔角　度〕
⑥〔航海図〕⑦〔面積〕⑧〔(地図の)中心〕⑨〔方位〕⑩〔航空図〕

年　組　番 氏名〔　　〕

地理の豆テスト

世界の大陸・大洋などについて答えなさい。

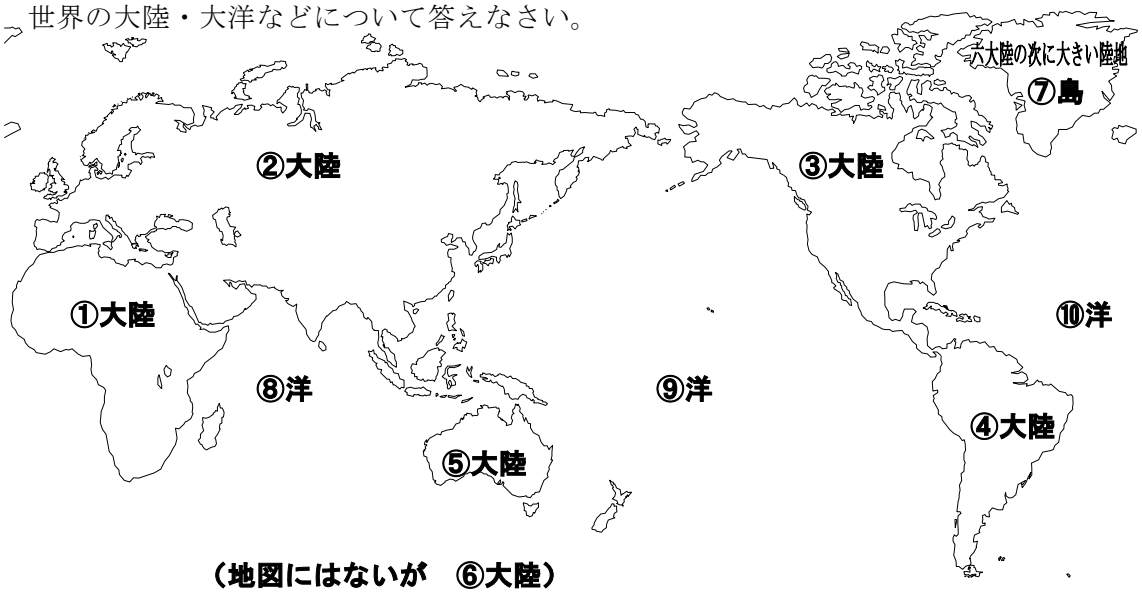

（地図にはないが　⑥大陸）

①〔アフリカ大陸〕②〔ユーラシア大陸〕③〔北アメリカ大陸〕④〔南アメリカ大陸〕⑤〔オーストラリア大陸〕
⑥〔南極大陸〕⑦〔グリーンランド島〕⑧〔インド洋〕⑨〔太平洋〕⑩〔大西洋〕

年　組　番 氏名〔　　〕

地理の豆テスト

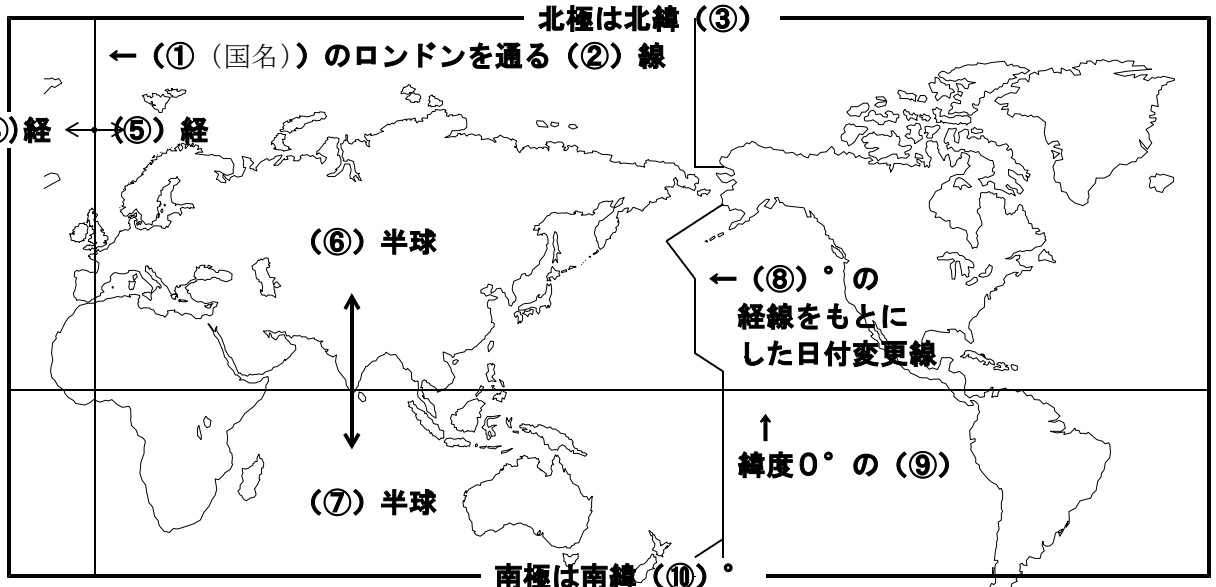

①〔イギリス〕②〔本初子午線〕③〔９０°〕④〔西〕⑤〔東〕
⑥〔北〕⑦〔南〕⑧〔180°〕⑨〔赤道〕⑩〔９０°〕

年　組　番 氏名〔　　〕

地理の豆テスト

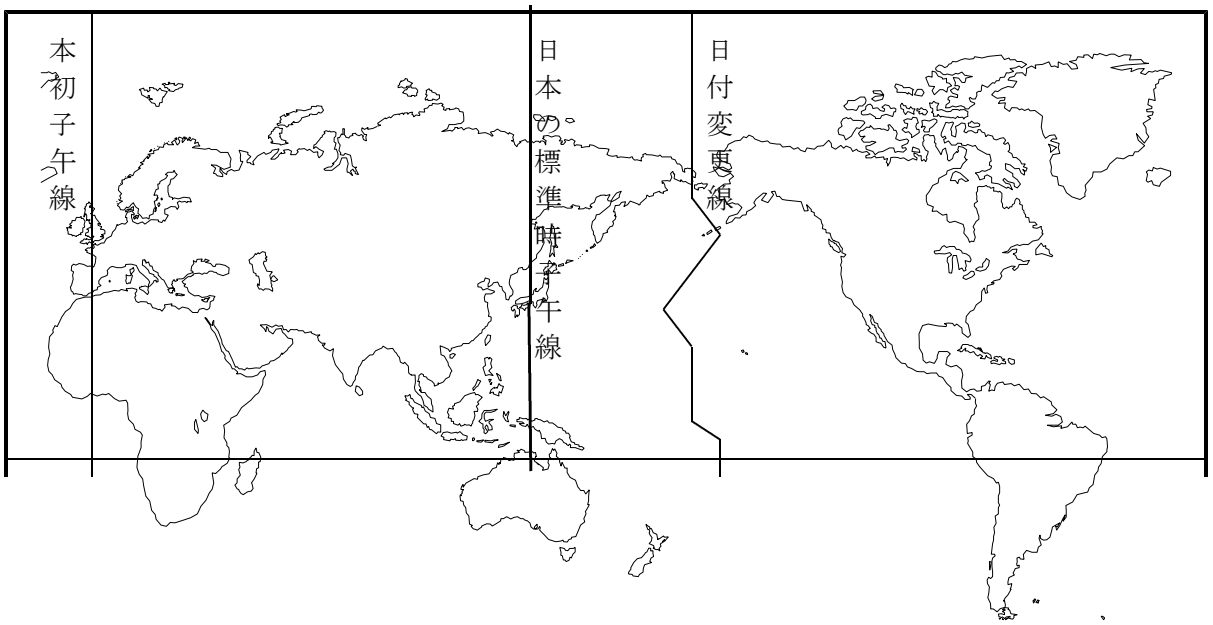

日本の標準時子午線は（①西経・東経）（②）°なので、日本はイギリスよりも（③）時間、時刻が（④はやい・おそい）ことになる。もし、日本が　５月２０日の正午（お昼の１２時）ならば、イギリスは５月（⑤）日の（⑥）時である。また、アメリカのニューヨークは、西経７５°にあるので、　５月（⑦）日の（⑧）時である。このような時刻のずれを（⑨）と言い、経度が（⑩）°東にずれる毎に１時間早く、西にずれる毎に１時間おそいことになる。

①〔東経〕②〔１３５〕③〔９〕④〔はやい〕⑤〔２０〕
⑥〔(午前)３〕時⑦〔１９〕⑧〔２０(午後８)〕時⑨〔時差〕⑩〔１５〕

年　組　番 氏名〔　　〕

①～⑩の都道府県名を答えよ(「〇〇県」というように、都道府県をつけて答えよ)

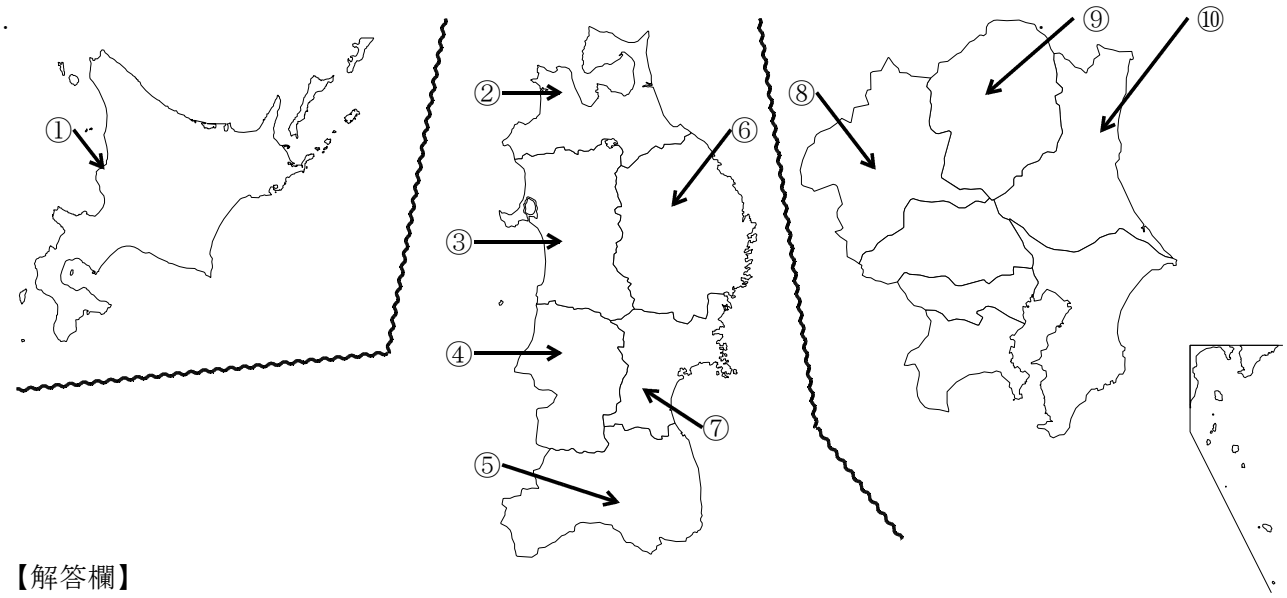

【解答欄】

①〔北海道〕②〔青森県〕③〔秋田県〕④〔山形県〕⑤〔福島県〕
⑥〔岩手県〕⑦〔宮城県〕⑧〔群馬県〕⑨〔栃木県〕⑩〔茨城県〕

年　組　番 氏名〔　　〕

①～⑩の都道府県名を答えよ(「〇〇県」というように、都道府県をつけて答えよ)

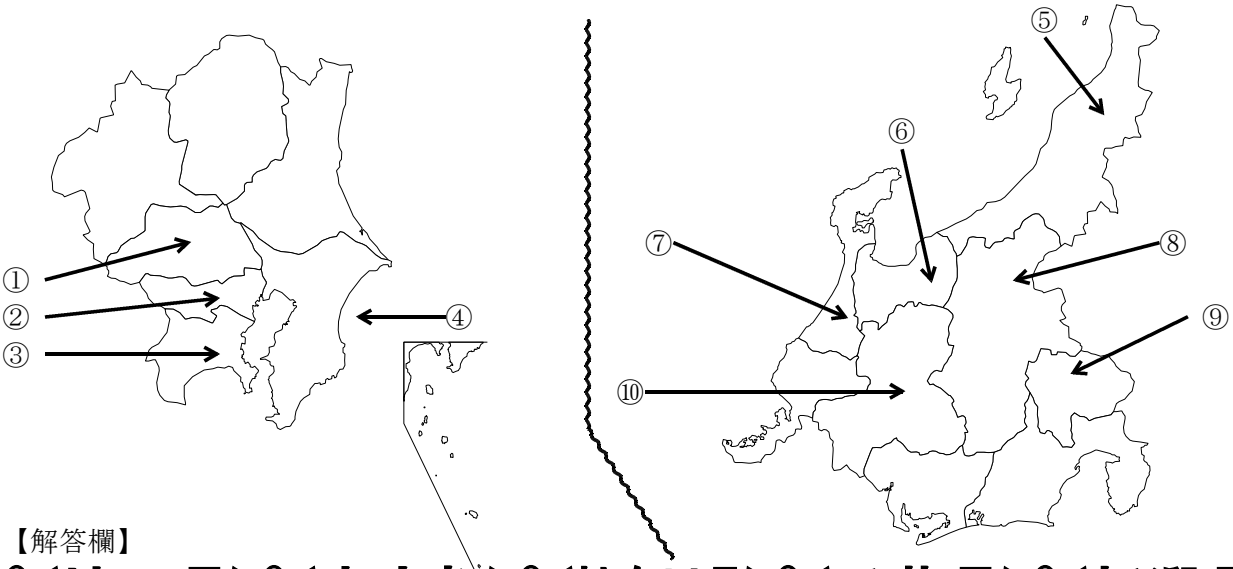

【解答欄】

①〔埼玉県〕②〔東京都〕③〔神奈川県〕④〔千葉県〕⑤〔新潟県〕
⑥〔富山県〕⑦〔石川県〕⑧〔長野県〕⑨〔山梨県〕⑩〔岐阜県〕

年　組　番 氏名〔　　〕

①～⑩の都道府県名を答えよ(「〇〇県」というように、都道府県をつけて答えよ)

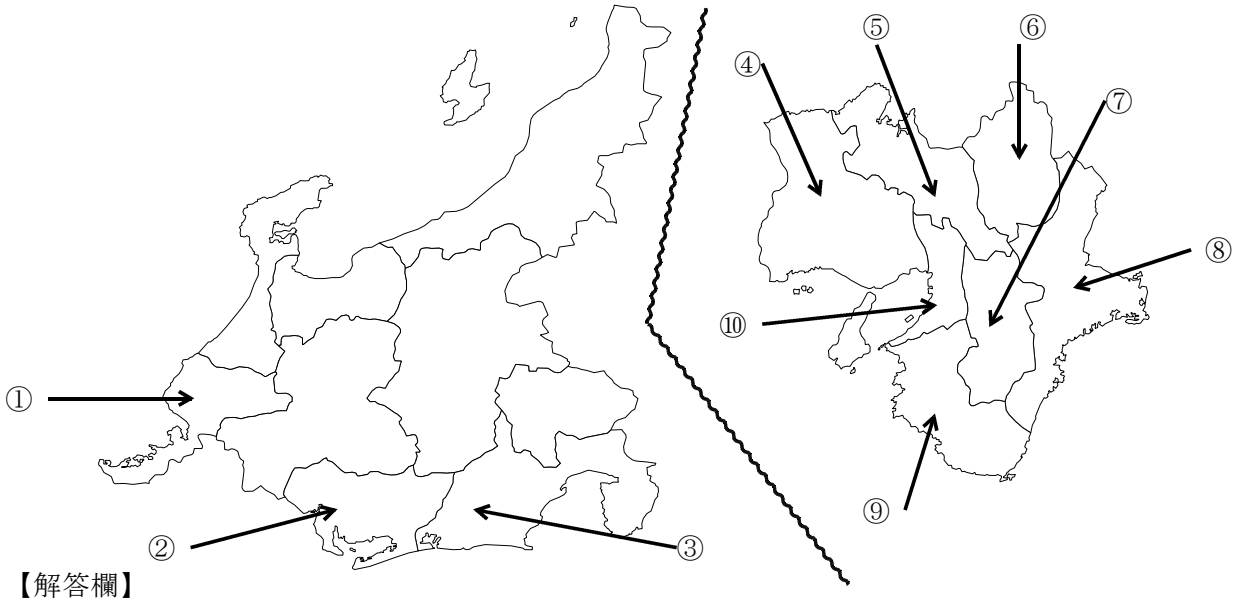

【解答欄】

①〔福井県〕②〔愛知県〕③〔静岡県〕④〔兵庫県〕⑤〔京都府〕
⑥〔滋賀県〕⑦〔奈良県〕⑧〔三重県〕⑨〔和歌山県〕⑩〔大阪府〕

年　組　番 氏名〔　　〕

①～⑨の都道府県名を答えよ。また、⑩の問いに答えよ。

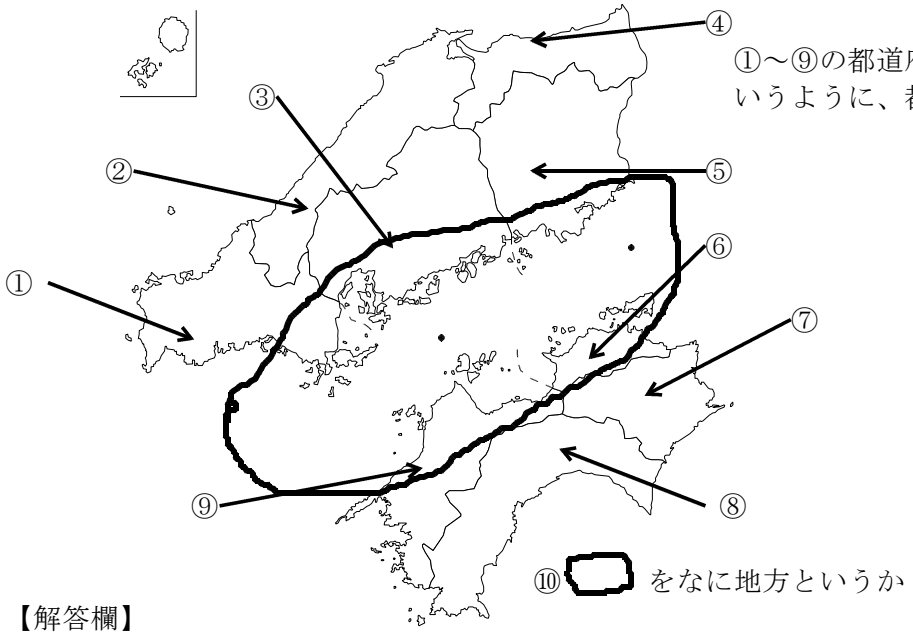

①～⑨の都道府県名を答えよ(「〇〇県」というように、都道府県をつけて答えよ)

【解答欄】

①〔山口県〕②〔島根県〕③〔広島県〕④〔鳥取県〕⑤〔岡山県〕
⑥〔香川県〕⑦〔徳島県〕⑧〔高知県〕⑨〔愛媛県〕
⑩〔瀬戸内 地方〕

年　組　番 氏名〔　　〕

①～⑧の都道府県名を答えよ。また⑨・⑩の問いに答えよ。

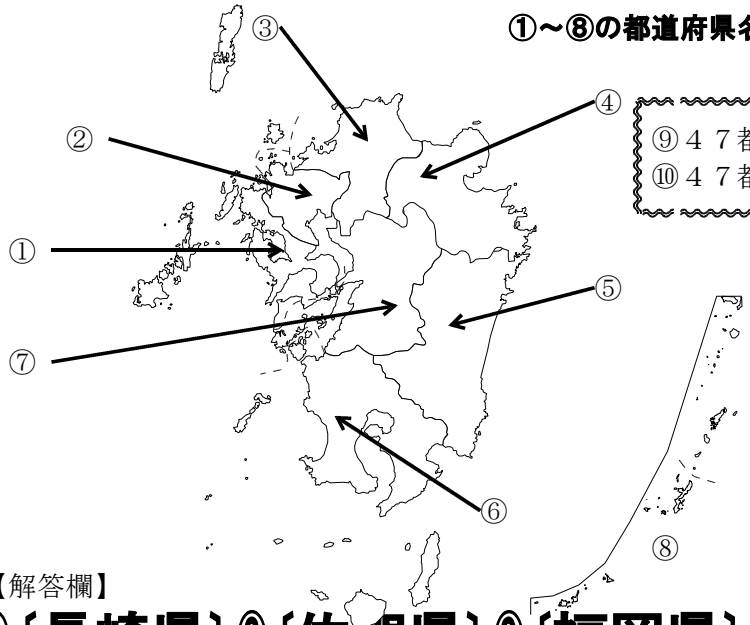

⑨４７都道府県中、最も人口が少ないのは？
⑩４７都道府県中、最も面積が小さいのは？

【解答欄】

①〔長崎県〕②〔佐賀県〕③〔福岡県〕④〔大分県〕⑤〔宮崎県〕
⑥〔鹿児島県〕⑦〔熊本県〕⑧〔沖縄県〕⑨〔鳥取県〕⑩〔香川県〕

年　組　番 氏名〔　　〕