地理の豆テスト

左のような、地球の模型を（①）と言い、地球上の陸地の形や面積、距離や方位などをほぼ正確に表すことができる。

しかし平面で表す世界地図は、全ての条件を同時に正しく表すことができないので、その地図の特徴を知り、目的に合わせて使うことが必要である。下の世界地図は、左から（②）図法、（③）図法、（④）図法という。

②図法は緯線と経線がすべて垂直に交わっているため（⑤）が正しく計れるので、（⑥）図に適している。

③図法は周辺の形がゆがむ欠点はあるが、陸地の（⑦）が正しく表されるため、分布図などに適している。

④図法はまるでレーダーのように見えるが、（⑧）からある地点までの距離と（⑨）が正しいので、（⑩）図に適している。ただし、⑧から以外は正しく表せないので、注意する必要がある。



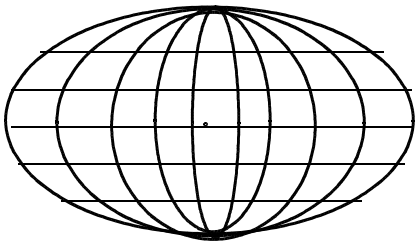

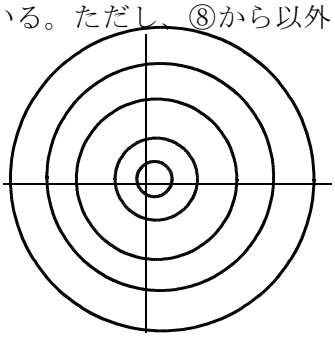

①〔　　〕②〔　　〕③〔　　〕④〔　　〕⑤〔　　〕

⑥〔　　〕⑦〔　　〕⑧〔　　〕⑨〔　　〕⑩〔　　〕

年　組　番 氏名〔　　〕

地理の豆テスト

世界の大陸・大洋などについて答えなさい。

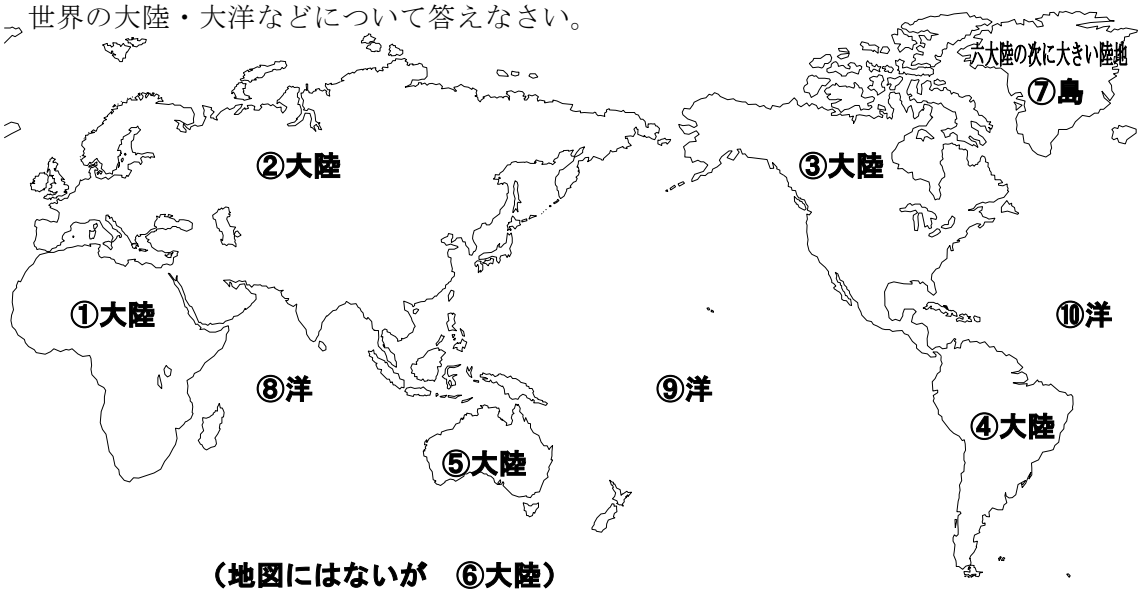

（地図にはないが　⑥大陸）

①〔　　大陸〕②〔　　大陸〕③〔　　大陸〕④〔　　大陸〕⑤〔　　大陸〕

⑥〔　　大陸〕⑦〔　　島〕⑧〔　　洋〕⑨〔　　洋〕⑩〔　　洋〕

年　組　番 氏名〔　　〕

地理の豆テスト

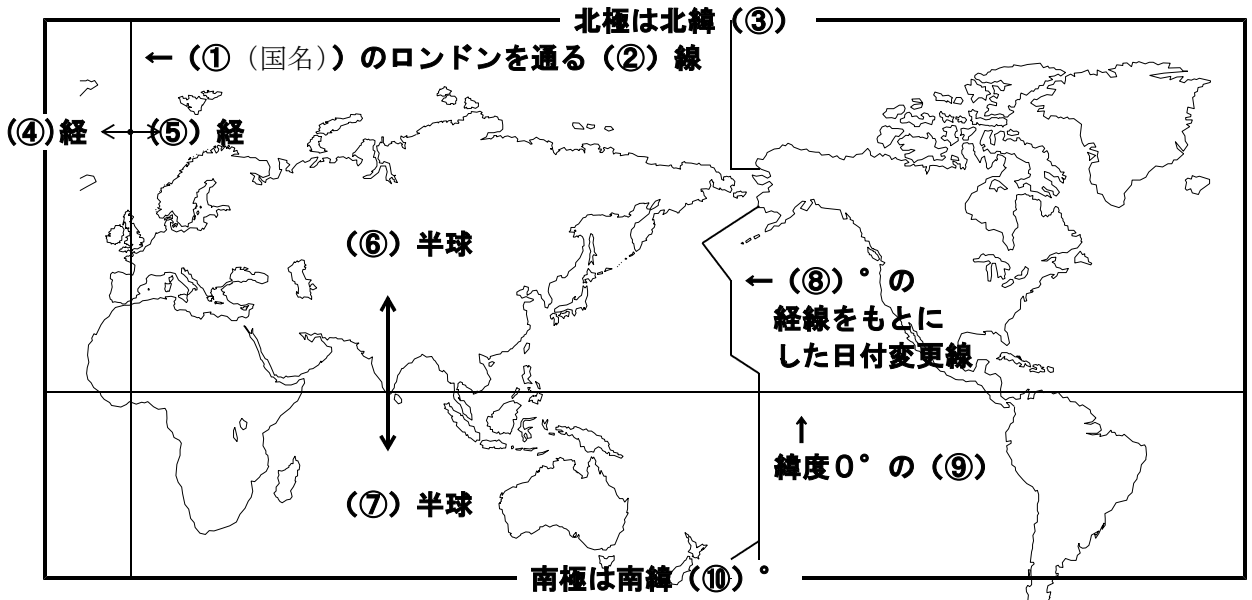

①〔　　〕②〔　　〕③〔　　〕④〔　　〕⑤〔　　〕
⑥〔　　〕⑦〔　　〕⑧〔　　〕⑨〔　　〕⑩〔　　〕

年　組　番 氏名〔　　〕

地理の豆テスト

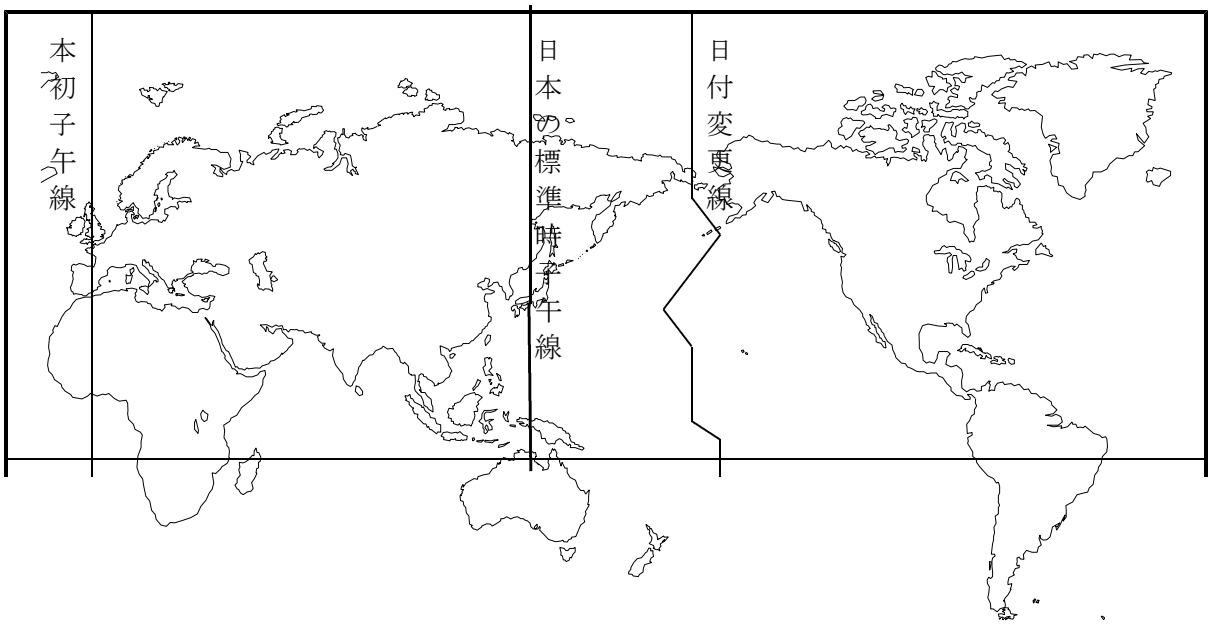

日本の標準時子午線は（①西経・東経）（②）°なので、日本はイギリスよりも（③）時間、時刻が（④はやい・おそい）ことになる。もし、日本が　５月２０日の正午（お昼の１２時）ならば、イギリスは５月（⑤）日の（⑥）時である。また、アメリカのニューヨークは、西経７５°にあるので、５月（⑦）日の（⑧）時である。このような時刻のずれを（⑨）と言い、経度が（⑩）°東にずれる毎に１時間早く、西にずれる毎に１時間おそいことになる。

①〔西経・東経〕②〔　　〕③〔　　〕④〔はやい・おそい〕⑤〔　　〕
⑥〔　　〕⑦〔　　〕⑧〔　　〕⑨〔　　〕⑩〔　　〕

年　組　番 氏名〔　　〕

①～⑩の都道府県名を答えよ(「〇〇県」というように、都道府県をつけて答えよ)

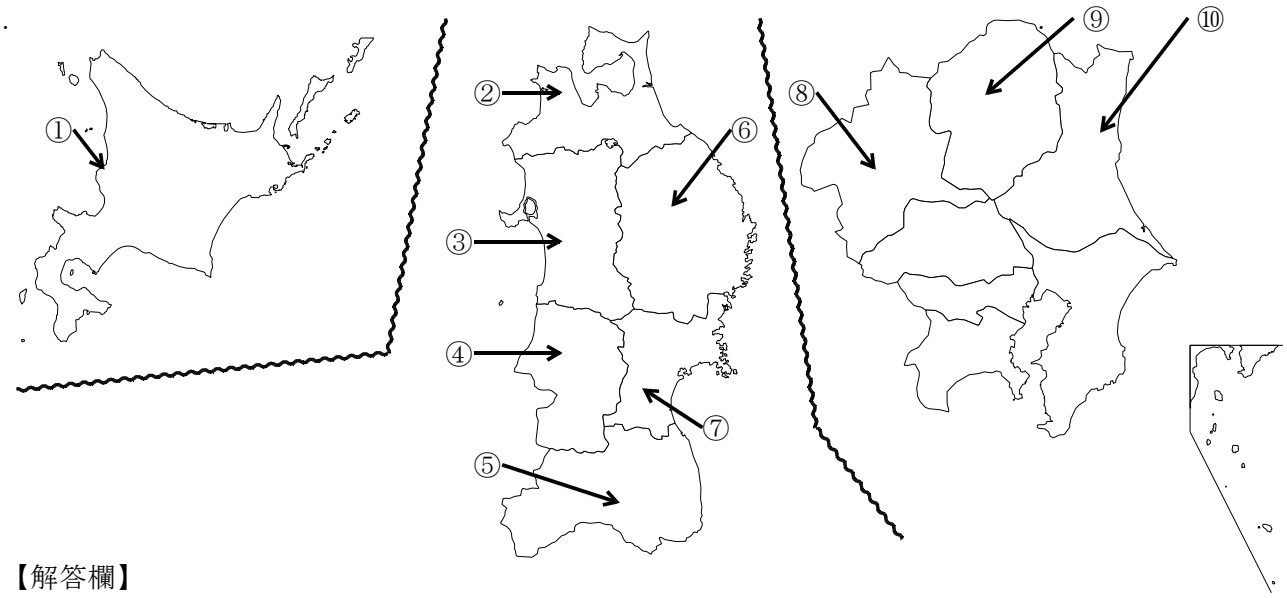

【解答欄】

① 〔　　〕 ② 〔　　〕 ③ 〔　　〕 ④ 〔　　〕 ⑤ 〔　　〕

⑥ 〔　　〕 ⑦ 〔　　〕 ⑧ 〔　　〕 ⑨ 〔　　〕 ⑩ 〔　　〕

年　組　番 氏名〔　　〕

①～⑩の都道府県名を答えよ(「〇〇県」というように、都道府県をつけて答えよ)

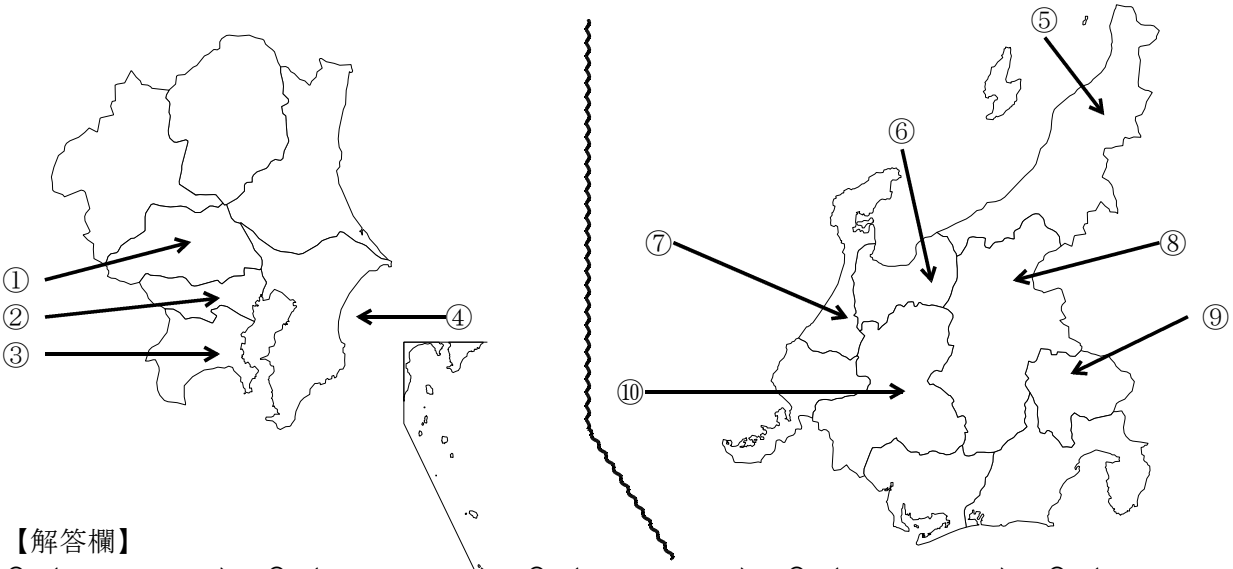

【解答欄】

① 〔　　〕 ② 〔　　〕 ③ 〔　　〕 ④ 〔　　〕 ⑤ 〔　　〕

⑥ 〔　　〕 ⑦ 〔　　〕 ⑧ 〔　　〕 ⑨ 〔　　〕 ⑩ 〔　　〕

年　組　番 氏名〔　　〕

①～⑩の都道府県名を答えよ(「〇〇県」というように、都道府県をつけて答えよ)

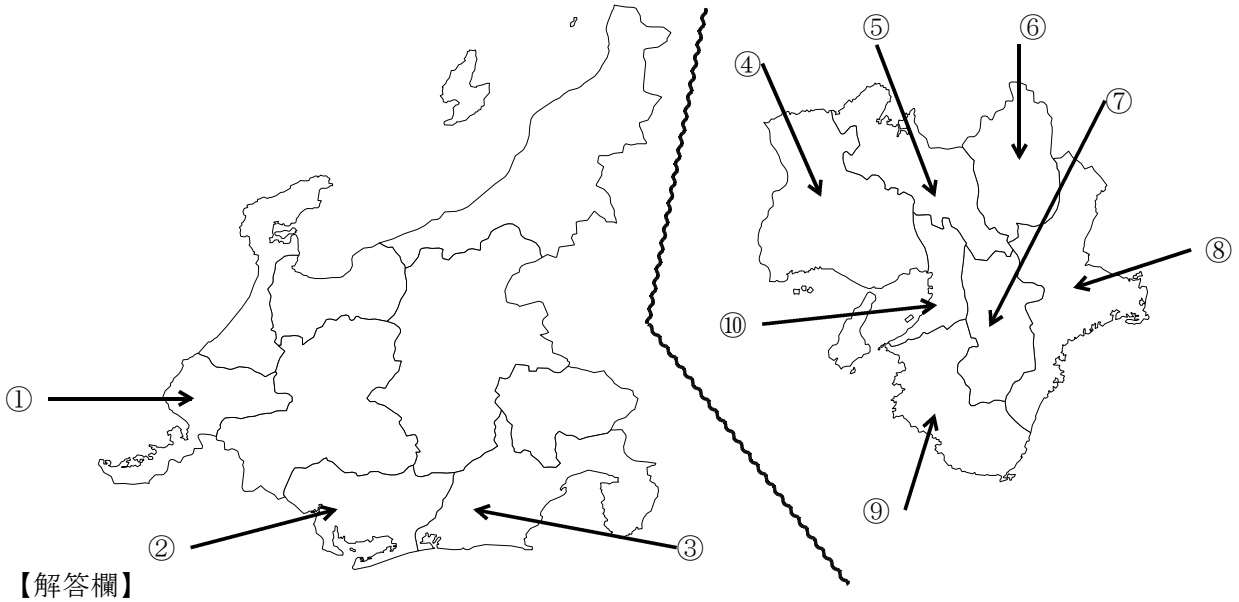

【解答欄】

①〔　　〕②〔　　〕③〔　　〕④〔　　〕⑤〔　　〕

⑥〔　　〕⑦〔　　〕⑧〔　　〕⑨〔　　〕⑩〔　　〕

年　組　番 氏名〔　　〕

①～⑨の都道府県名を答えよ。また、⑩の問いに答えよ。

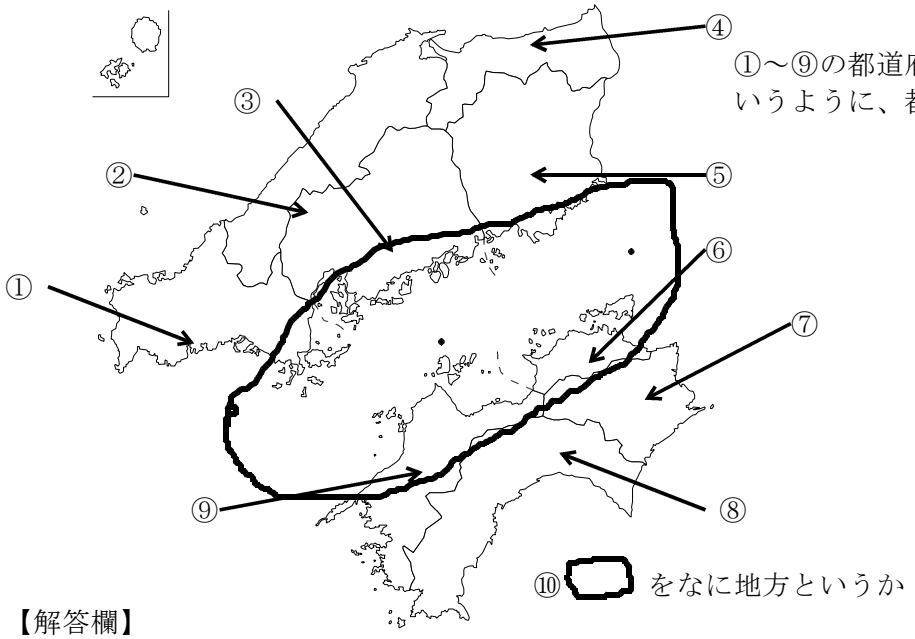

①～⑨の都道府県名を答えよ(「〇〇県」というように、都道府県をつけて答えよ)

【解答欄】

①〔　　〕②〔　　〕③〔　　〕④〔　　〕⑤〔　　〕

⑥〔　　〕⑦〔　　〕⑧〔　　〕⑨〔　　〕

⑩〔　　地方〕　　年　組　番 氏名〔　　〕

①～⑧の都道府県名を答えよ。また⑨・⑩の問いに答えよ。

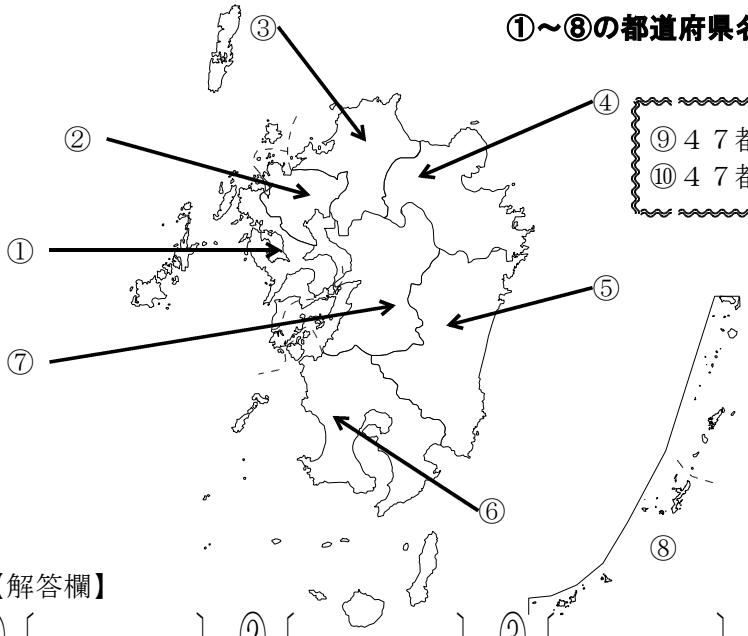

⑨４７都道府県中、最も人口が少ないのは？
⑩４７都道府県中、最も面積が小さいのは？

【解答欄】

①〔　　〕②〔　　〕③〔　　〕④〔　　〕⑤〔　　〕
⑥〔　　〕⑦〔　　〕⑧〔　　〕⑨〔　　〕⑩〔　　〕

年　組　番 氏名〔　　〕